DO NOT OPEN THE SEAL OF THE BOOKLET UNTIL YOU ARE TOLD TO DO SO

EXAM ID. - 7646

UPSSSC PET

TEST SERIES

DATE -__ /__ /____

DAY -

उम्मीदवारों के लिए अनुदेश

TEST SERIES NO.

A - 101

QUESTION – 100 MARKS – 100 NEGATIVE MARK – 0.25 DURATION – 120 MIN.

1. केवल काले या नीले रंग की स्याही वाले बॉल पेन का ही उपयोग करें
2. परीक्षा प्रारंभ होते ही आप इस प्रश्न पुस्तिका की जाँच अवश्य कर ले तथा यदि इसमें कोई बिना छपा कटा-फटा या आंशिक छपा हुआ पृष्ठ अथवा प्रश्न हो, तो इसे अभिजागर के माध्यम से सही प्रश्न पुस्तिका से बदल लीजिए।
3. इस प्रश्न पुस्तिका में कुल 150 प्रश्न हैं I
4. यह एक वस्तुनिष्ठ परीक्षा है, जिसमें प्रत्येक प्रश्न के उत्तर के लिए चार विकल्प दिए गए है, आपको इन चार विकल्पों में से सही उत्तर वाले एक ही विकल्प को चुनना है।
5. सभी प्रश्नों के उत्तर अलग अलग से दिए गए उत्तर-पत्रक पर ही अंकित करने है।
6. उत्तर-पत्रक को भरने हेतु निर्देश उत्तर-पत्रक के पृष्ठ भाग पर अंकित है, जिन्हें उत्तर-पत्रक को भरने से पूर्व ध्यान से पढ़ ले ।
7. इस प्रश्न पुस्तिका में रफ-कार्य के लिए खाली पृष्ठ उपलब्ध हैं।
8. परीक्षा समाप्त होने से पूर्व परीक्षार्थी कक्ष से बाहर नहीं जा सकते हैं।
9. परीक्षा समाप्त होने के पश्चात् आप उत्तर-पत्रक की ORIGINAL COPY को अभिजागर के पास जमा कराकर उनकी अनुमति से ही बाहर जा सकते हैं।
10. परीक्षा समाप्त होने पर प्रश्न पुस्तिका एवं उत्तर-पत्रक की Candidate's Copy को अपने साथ ले जाने की अनुमति हैं।
11. प्रत्येक सही उत्तर पर 1 अंक प्राप्त होगा तथा प्रत्येक गलत उत्तर पर 0.25 अंक काटा जाएगा।

WIFI PUBLICATION
POWERD BY TIME4LEARNING

YOUR BRAND LOGO HERE

YOUR INSTITUTE NAME

Address- Your coaching institute full address

Helpline :- 7737404085, 8209244090

1. **(QUES : 1- 5) Read the passages carefully and choose the best answer to each question out of the four alternatives.**

The significance of some judicial interventions trumps the fact that they are unusual or are marred by excessive activism. The Supreme Court's project to revamp the cricket administration is one such. It has accepted the recommendations of a committee headed by former Chief Justice of India R.M. Lodha, which favoured sweeping structural reforms and specific rules to eliminate conflicts of interest and the creation of near-permanent tenures and fiefdoms. In its overall approach, the court has shown a sharp understanding of two broad ills: the concentration of power in the president of the Board of Control for Cricket in India and the patronage extended by the office to favoured individuals who enjoy the president's confidence. The panel's recommendations stem from the same concern: they include restrictions on the number of terms and overall tenure for office-bearers, a bar on anyone holding more than one office at a time, a cooling-off period between one tenure and another, and the replacement of the bloated working committee with a nine-member Apex Council with player representation. Normally, a private body would not be subject to such restrictions in its right to form an association. And the BCCI may well believe its powers are unfettered or at least not subject to judicial micromanagement. But cricket is a national sport and the BCCI, irrespective of its legal status, must act in a transparent and accountable manner as a trustee of the game. The need to do so is all the greater given the huge infusion of corporate funding in recent years, which has attracted an assortment of operators and shadowy interests seeking to capitalize on cricket's popularity.It was the betting scandal that hit the Indian Premier League in 2013 that brought to the fore the unsavoury aspects of the cricketing administration. An impression had gained ground that the Board operated like a cosy, self-serving club. That it was important to put an end to grave conflict of interest issues that have plagued the game and take a hard line against malpractices such as match-fixing and spot-fixing is indisputable. One may disagree with some aspects of the court's order such as the 'one State one vote' rule and the placing of a cap on the age of office-bearers — these are details best left to administrative bodies. But these are but cavils given the overall thrust of the order, which is aimed at introducing a measure of professionalism in the management of the game. It is here that the Supreme Court's order will be tested in the years to come. If it brings about greater transparency in the operation of both commercial and sporting aspects of cricket, it would be mean a significant victory for its genuine proponents and supporters.

"An impression had gained ground that the Board operated like a cosy, self-serving club." According to the passage, what does the line mean?

a) Image of the Indian cricket is getting tarnished
b) BCCI is the owner of Indian cricket
c) BCCI is an independent board; it has nothing to do with Indian government
d) None of the above

2. **What could be the suitable 'title' of the above passage?**

a) " CRICKET" a gentleman's game
b) Cleaning up "Cricket"
c) IPL will be known for "scandals"
d) None of the above

3. **Which of the following statements are NOT TRUE according to the given passage?**

1- One may agree with some aspects of the court's order such as the 'one State one vote' rule and the placing of a cap on the age of office-bearers
2- Normally, a private body would not be subject to such restrictions in its right to form an association.
3- But cricket is a national sport and the BCCI, irrespective of its legal status, must act in a transparent and accountable manner as a trustee of the game.

a) Only (1)
b) Only (2)
c) Only (3)
d) None of the above

4. **In what aspect author disagrees with the court?**

a) placing of a cup on the names of official bearers
b) cricket in India should not be governed by the Indian government
c) one state can give only one vote
d) None of the above

5. **Choose the word which is most opposite in meaning to patronage as used in the passage.**

a) antagonism
b) aegis
c) auspices
d) sponsorship

6. **जैसे दूसरा पद पहले पद से संबंधित है समान रूप से तीसरे पद से संबंधित पद का चुनाव करें।**
चुम्बकीय क्षेत्र : ओस्टेंड :: शक्ति:?

a) लीटर
b) मीटर
c) वॉट
d) वोल्ट

7. **कौन सी संख्या नीचे दिए गए संबंध को सर्वोत्तम ढंग से पूर्ण करेगी ?**
9 : 20 :: 21:?

a) 131 b) 102
c) 97 d) 44

8. यदि 'code' = 6241, 'made' = 5346, 'come' = 3124 और "to' = 27 तो 'dome' = ?
a) 6134 b) 5214
c) 6124 d) 2634

9. F, A का भाई है। C, A की पुत्री है। K, F की बहन है। G, C का भाई है। G का चाचा/मामा कौन है?
a) A b) C
c) F d) K

10. रमा, गीता से लंबी हैं। विमला, रमा से लंबी है, लेकिन मीनू से छोटी है। बिंदू, गीता से लंबी है, लेकिन रमा से छोटी है। दिए गए व्यक्तियों में से कौन सबसे छोटा है?
a) रमा b) बिंदू
c) विमला d) गीता

11. 68वां हुंडई फिल्मफेयर अवॉर्ड 2023 में किसे सर्वश्रेष्ठ फिल्म का पुरस्कार दिया गया है?
a) गंगूबाई काठियावाड़ी b) बधाई सिंह
c) भूल भुलैया 2 d) जुग जुग जियो

12. किस राज्य सरकार ने सड़क हादसे में घायल व्यक्ति को अस्पताल पहुंचाने वाले को दस हजार रुपय देने की घोषणा की है?
a) असम b) हिमाचल प्रदेश
c) बिहार d) उत्तर प्रदेश

13. आईपीएल 2023 में सबसे अधिक रन बनाकर 'ऑरेंज कैप' किस खिलाड़ी ने जीता?
a) यशस्वी जायसवाल b) डेविड वार्नर
c) विराट कोहली d) शुभमन गिल

14. संयुक्त राष्ट्र के आउटर स्पेस अफेयर्स के नए निदेशक के रूप में किसे नियुक्त किया गया है?
a) आरती होला-मैनी b) मीनाक्षी सिन्हा
c) नवीन कालरा d) रोमा रस्तोगी

15. विश्व आर्थिक मंच द्वारा जारी एनर्जी ट्रांजीशन इंडेक्स में भारत की रैंक क्या है?
a) 67वां b) 68वां
c) 69वां d) 70वां

16. पंजाब के नए मुख्य सचिव के तौर पर किसे नियुक्त किया गया है?
a) अजय कुमार b) अभिषेक अवस्थी
c) राजेश अग्रवाल d) अनुराग वर्मा

17. किस राज्य में पहली बार किसी ट्रांसजेंडर को 'जन्म का प्रमाण' पत्र दिया है?
a) त्रिपुरा b) राजस्थान
c) असम d) सिक्किम

18. किस स्पेस एजेंसी द्वारा विश्व का सबसे बड़ा निजी संचार उपग्रह 'ज्यूपिटर 3' लॉन्च किया गया है?
a) नासा b) इसरो
c) जाक्सा d) स्पेसएक्स

19. किस ने रेलवे बोर्ड के अध्यक्ष और सीईओ के रूप में कार्यभार संभाल लिया है?
a) जया वर्मा सिन्हा b) अंजलि गोयल
c) अनिल कुमार लाहोटी d) डॉ. सुगंधा राहा

20. रूस की दिग्गज ऑयल कंपनी रोसनेफ्ट ने किसे अपने बोर्ड में नियुक्त किया है?
a) जी के सतीश b) पवन शर्मा
c) आर.के.शर्मा d) नवीन कुमार

21. भारत में राष्ट्रीय खेल दिवस प्रतिवर्ष कब मनाया जाता है?
a) 27 अगस्त b) 28 अगस्त
c) 29 अगस्त d) 30 अगस्त

22. भारत के संविधान के किस भाग में 'आपातकालीन प्रावधान' शामिल हैं?
a) भाग XIII b) भाग XV
c) भाग XVIII d) भाग X

23. निम्नलिखित में से कौन सा लोक नृत्य राजस्थान राज्य से संबंधित नहीं है?
a) घूमर b) गवरी
c) कालबेलिया d) चैपली

24. भारतीय राष्ट्रीय महासागर सूचना सेवा केन्द्र (INCOIS) का मुख्यालय कहाँ है?
a) हैदराबाद b) गोवा
c) ओडिशा d) चेन्नई

25. निम्नलिखित में से कौन-सा विकल्प भारतीय संविधान में मौलिक कर्त्तव्य के रूप में सूचीबद्ध नहीं है?
a) यातायात नियमों का पालन करना b) सार्वजनिक संपत्ति की सुरक्षा करना
c) वैज्ञानिक सोच विकसित करना d) प्राकृतिक पर्यावरण की रक्षा एवं उसमें सुधार करना

26. गवर्नर जनरल कैनिंग ने निर्णय लिया कि _____ अंतिम मुगल शासक होगा और उसकी मृत्यु के बाद उसके कोई भी वंशज राजाओं के रूप में मान्य नहीं होंगे।
a) बहादुर शाह जफर b) औरंगजेब
c) जहाँदार शाह d) शाहजहाँ

27. भारत के संविधान की दूसरी अनुसूची के भाग ई (E) में निम्नलिखित में से किस अधिकारी के वेतन/ परिलब्धियों का उल्लेख है? ।
a) प्रधानमंत्री के निजी सचिव के b) प्रधानमंत्री कार्यालय के मुख्य सचिव के
c) नियंत्रक एवं महालेखा परीक्षक के d) केंद्र सरकार के कैबिनेट सचिव के

28. पहला "पाई दिवस" किस वर्ष मनाया गया था?

a) 1988 b) 1970
c) 1990 d) 1985

29. भारतीय भूवैज्ञानिक सर्वेक्षण (जीएसआई) की स्थापना कब की गई थी?

a) 1852 b) 1851
c) 1850 d) 1900

30. भारतीय संविधान के किस भाग में राज्य नीति के निर्देशक सिद्धांतों का उल्लेख मिलता है?

a) भाग I b) भाग II
c) भाग III d) भाग IV

31. निम्न गद्यांश को पढ़कर सबसे उचित विकल्प चुनिए
(QUES : 31 – 35)

जिन लोगों ने गहन साधना करके अपने को सहज नहीं बना लिया, वे सहज भाषा नहीं पा सकते । व्याकरण और भाषा-शास्त्र के बल पर यह भाषा नहीं बनायी जा सकती, कोशों में प्रयुक्त शब्दों के अनुपात पर इसे नहीं गढ़ा जा सकता। कबीरदास और तुलसीदास को यह भाषा मिली थी, महात्मा गाँधी को भी यह भाषा मिली, क्योंकि वे सहज हो सके। उनमें दान करने की क्षमता थी। शब्दों का हिसाब लगाने से यह दातृत्व नहीं मिलता, अपने को दलित द्राक्षा के समान निचोड़कर महासहज के समक्ष समर्पण कर देने से प्राप्त होता है। जो अपने को निःशेष भाव से नहीं दे सका, वह दाता नहीं हो सकता। आप में अगर देने लायक वस्तु है तो भाषा स्वयं सहज हो जायेगी। पहले सहज भाषा बनेगी, फिर उसमें देने योग्य पदार्थ भरे जायेंगे, यह गलत रास्ता है। सही रास्ता यह है कि पहले देने की क्षमता उपार्जन कीजिए। इसके लिए तप की जरूरत है, साधना की जरूरत है, अपने को निःशेष भाव से दान कर देने की जरूरत है।

'उपार्जन' में संधि है -

a) यण b) गुण
c) दीर्घ d) वृद्धि

32. कौन शब्द तत्सम नहीं है?

a) प्रयुक्त b) हिसाब
c) उपार्जन d) द्राक्षा

33. कौन शब्द विदेशी है?

a) व्याकरण b) भाषा
c) क्षमता d) गलत

34. कौन शब्द में प्रत्यय नहीं है?

a) कोशों b) दान
c) बनेगी d) दातृत्व

35. 'भाषा-शास्त्र' में समास है-

a) तत्पुरुष b) कर्मधारय
c) द्वन्द्व d) अव्ययीभाव

36. निम्न पद्यांश को पढ़कर सबसे उचित विकल्प चुनिए-
(QUES : 36 – 40)

जिस दिन मेरी चेतना जगी मैंने देखा
मैं खड़ा हुआ हूँ इस दुनिया के मेले में,
हर एक यहाँ पर एक भुलावे में भूला,
हर एक लगा है अपनी-अपनी दे-ले में,
कुछ देर रहा हक्का-बक्का, भौंचक्का-सा
आ गया कहाँ, क्या करूँ यहाँ जाऊँ किस जा?
फिर एक तरफ से आया ही तो धक्का-सा,
मैंने भी बहना शुरू किया उस रेले में;
क्या बाहर की ठेला-पेली ही कुछ कम थी,
जो भीतर भी भावों का ऊहा-पोह मचा,
जो किया, उसी को करने की मजबूरी थी,
जो कहा वही मन के अंदर से उबल चला।
जीवन की आपा-धापी में कब वक्त मिला
कुछ देर कहीं पर बैठ कभी यह सोच सकूँ,
जो किया, कहा, माना उसमें क्या बुरा-भला।

इस काव्यांश में चित्रण है -

a) मनुष्य की स्वार्थपरकता का b) मेले का
c) जीवन की भाग-दौड़ का d) बाहरी द्वन्द्व का

37. इस पद्यांश का केन्द्रीय भाव है -

a) बाहर की ठेला-पेली b) हक्का-बक्का भौंचक्का सा पर
c) दुनिया के मेले में d) जीवन की आपा-धापी में

38. 'अपनी-अपनी दे-ले' का आशय है -

a) स्वार्थ साधना b) उधार लेना-देना
c) हिसाब-किताब d) मांगना-लौटाना

39. 'हक्का-बक्का' से किसका ध्वनि साम्य है ?

a) ठेला-पेली b) भौंचक्का
c) ऊहा-पोह d) उबल चलान

40. इस काव्यांश की विधा है -

a) अकविता b) गजल
c) नई कविता d) इनमें से कोई नहीं

41. किस वाक्य में समुच्चयबोधक अव्यय हैं?

a) बिजली चली गई और गर्मी लगने लगी b) मेरे घर के सामने सिनेमा-घर है
c) शीतल ही देखेगी d) अरे ! बारह बज गए

42. रचना के आधार पर वाक्य के भेद होते हैं -

a) तीन b) चार
c) दो d) पाँच

43. सरल वाक्य है -

a) उसने आज सुबह दूध पिया b) गिलास नीचे गिरा और टूट गया
c) मैंने समझाया और वह बात मान गया d) वह ऐसे चल रही थी जैसे कोई बीमार चलता हो

44. 'आस्तीन का .....' - मुहावरा है -

a) बाल b) फोड़ा
c) पसीना d) सांप

45. विज्ञान के नित-नित आविष्कारों को देखकर आम आदमी आश्चर्य से..... - के लिए उपयुक्त मुहावरा होगा -

a) दम तोड़ देता है b) थर-थर कांपने लगता है

c) अपना-सा मुँह लेकर रह जाता d) दाँतों तले अंगुली दबा लेता है है

46. (QUES : 46 – 50) निम्नलिखित बार-ग्राफ पांच विभिन्न संगठनों में पुरुषों तथा महिलाओं की कुल संख्या को दर्शाता है। प्रश्नों के उत्तर देने के लिए इसका ध्यानपूर्वक अध्ययन कीजिये।

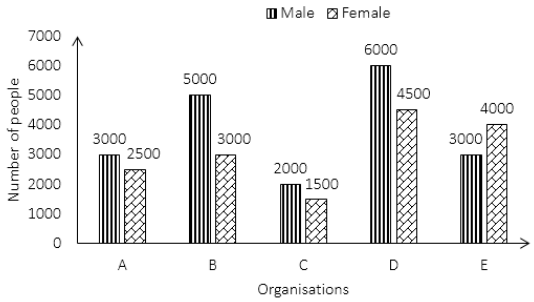

सभी संगठनों से मिलाकर महिलाओं की कुल संख्या तथा पुरुषों की कुल संख्या के बीच का अंतर कितना है?

a) 4500 b) 3500
c) 3000 d) 4000

47. सभी संगठनों से मिलाकर महिलाओं की औसत संख्या, संगठन 'C' से पुरुषों की संख्या से कितने प्रतिशत अधिक है?

a) 45% b) 40%
c) 60% d) 55%

48. संगठन B तथा C से महिलाओं की संख्या का, संगठन D तथा E से पुरुषों की संख्या से अनुपात कितना है?

a) 1 : 2 b) 2 : 1
c) 2 : 3 d) 3 : 2

49. संगठन A तथा B से मिलाकर पुरुषों की संख्या, संगठन C, D तथा E से मिलाकर पुरुषों की कुल संख्या का कितना प्रतिशत हैं?

a) 88.88% b) 108.8%
c) 72.72% d) इनमें से कोई नहीं

50. संगठन A, B तथा C से महिलाओं की औसत संख्या का, संगठन C, D तथा E से पुरुषों की औसत संख्या से अनुपात कितना है?

a) 11 : 7 b) 7 : 9
c) 9 : 7 d) 7 : 11

51. (QUES : 51 – 55) एक कार कंपनी चार अलग-अलग कारों का उत्पादन करती है। 2015 और 2019 के दौरान इन कारों की बिक्री (हजार में) नीचे बार आरेख में दर्शायी गयी है। ग्राफ का अध्ययन कीजिए और प्रश्नों के उत्तर दीजिए।

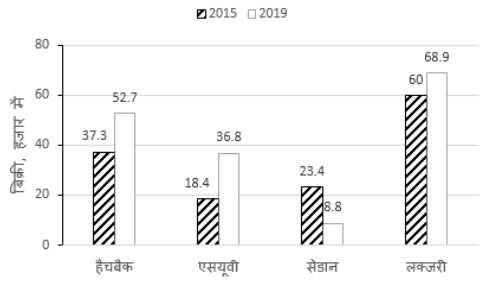

2019 में हैचबैक की प्रतिशत में बिक्री, 2019 में एसयूवी की बिक्री की तुलना में कितनी अधिक थी?

a) 43.21 b) 43.31
c) 42.86 d) 43.79

52. 2019 में सेडान की बिक्री का, 2015 में एसयूवी की बिक्री से अनुपात कितना है?

a) 11 : 27 b) 22 : 27
c) 11 : 23 d) 22 : 43

53. 2015 में एसयूवी की बिक्री, 2015 में लग्जरी की बिक्री की तुलना में कितनी कम थी?

a) 73.42% b) 71.82%
c) 75.79% d) 69.34%

54. 2015-2019 की अवधि के दौरान, बिक्री में वृद्धि की न्यूनतम दर किस उत्पाद में है?

a) हैचबैक b) एसयूवी
c) सेडान d) लक्जरी

55. किस उत्पाद में 2015 से 2019 तक बिक्री में लगभग 100% की वृद्धि हुई है?

a) हैचबैक b) एसयूवी
c) सेडान d) लक्जरी

56. (QUES : 56 – 60) एक स्कूल में 1080 विद्यार्थी हैं, जिन्होंने चित्र में दर्शाए अनुसार, अलग-अलग खेलों में भाग लिया, प्रश्नों को ध्यान से पढ़िये और निम्नलिखित प्रश्नों के उत्तर दीजिये।

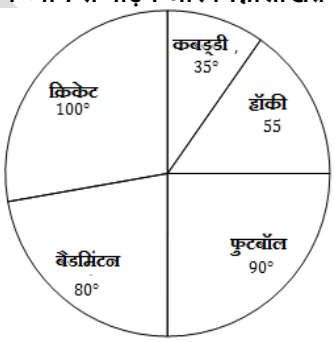

क्रिकेट में भाग लेने वाले विद्यार्थियों की संख्या, कबड्डी और हॉकी में मिलाकर भाग लेने वाले विद्यार्थियों की संख्या से कितनी अधिक (संख्या में) है?

a) 300 b) 30
c) 400 d) 40

57. किस खेल में 22.22% विद्यार्थी भाग लेते हैं?

a) बैडमिंटन b) क्रिकेट
c) फुटबाल d) हॉकी

58. कबड्डी, बैडमिंटन और फुटबॉल में कितने विद्यार्थियों ने भाग लिया?

a) 415 b) 515
c) 615 d) 715

59. यदि दूसरे स्कूल से क्रिकेट में भाग लेने वाले विद्यार्थियों की संख्या, बैडमिंटन में भाग लेने वाले विद्यार्थियों की संख्या से

2.5 गुना है, तो दूसरे स्कूल से कितने विद्यार्थियों ने क्रिकेट में भाग लिया?

a) 650 b) 550
c) 500 d) 600

60. कबड्डी, हॉकी और फुटबॉल में भाग लेने वाले विद्यार्थियों तथा क्रिकेट और बैडमिंटन में भाग लेने वाले विद्यार्थियों के मध्य कितना अंतर है?

a) 100 b) 0 zero
c) 50 d) 30

61. (QUES : 61 – 65) तालिका का ध्यानपूर्वक अध्ययन कीजिये और निम्नलिखित प्रश्नों के उत्तर दीजिये:
भारत में मुख्य फसलों का उत्पादन (मिलियन टन में)

year / crops	91-92	92-93	93-94	94-95	95-96	96-97
Pulses	20.5	22.4	24.6	23.5	27.8	28.2
Oilseeds	32.4	34.6	40.8	42.4	46.8	52.4
Rice	80.5	86.4	88.2	92.6	94.2	90.8
Sugarcane	140.8	150.2	152.2	160.3	156.4	172.5
Wheat	130.2	138.4	146.8	141.6	152.2	158.4
Coarse grain	45.6	52.8	60.4	62.2	58.2	62.8

1993-94 में गन्ने का उत्पादन, 1992-93 में चावल के उत्पादन का लगभग कितने प्रतिशत है?

a) 176 b) 75
c) 150 d) 125

62. किस प्रकार की फसल का उत्पादन दिए गए वर्षों में से प्रत्येक वर्ष में बढ़ रहा है?

a) चावल b) तेल
c) दाल d) गन्ना

63. दिए गए वर्षों में दालों का औसत उत्पादन कितना था?

a) 26.8 मिलियन टन b) 20.5 मिलियन टन
c) 24.5 मिलियन टन d) 22.5 मिलियन टन

64. वर्ष 1991-92 में तेल बीज का उत्पादन, वर्ष 1991-92 में उत्पादित कुल फसलों का कितने प्रतिशत है?

a) 7.2 b) 8.4
c) 6.4 d) 7.6

65. वर्षों 1994-95, 95-96 और 1996-97 में तेल बीजों का कुल उत्पादन, निम्नलिखित में से किस वर्ष में गेहूँ के उत्पादन के बराबर है?

a) 1993-94 b) 1994-95
c) 1995-96 d) 1996-97

66. 2 वर्ष के लिए किसी धन का चक्रवृद्धि ब्याज और साधारण ब्याज 492 रुपये और 480 रुपये है। धन का योग ज्ञात करें।

a) 4800 रूपये b) 1600 रूपये
c) 7200 रूपये d) 5200 रूपये

67. एक माँ और बेटी की वर्तमान आयु 8 : 3 के अनुपात में है। 12 वर्षों के बाद, उनकी आयु का अनुपात 2 : 1 होगा। माँ और बेटी की वर्तमान आयु का योग क्या है?

a) 71 वर्ष b) 66 वर्ष
c) 69 वर्ष d) 74 वर्ष

68. 72 मीटर/घंटे की गति से चलने वाली 110 मीटर लंबी रेलगाड़ी को 132 मीटर लम्बा पुल पार करने में कितना समय लगता है?

a) 10 सेकंड b) 12.1 सेकंड
c) 14.2 सेकंड d) 15.5 सेकंड

69. A, B और C क्रमशः 10 दिनों, 8 दिनों और 20 दिनों में एक कार्य पूरा कर सकते हैं। यदि वे एक साथ काम करना शुरू करते हैं तो वे कितने दिनों में काम पूरा करेंगे?

a) $3\frac{7}{11}$ days b) $7\frac{3}{11}$ days
c) 4 days d) 8 days

70. 25 संख्याओं का औसत 36 है। यदि संख्या 26 को एक नई संख्या से बदल दिया जाता है तो औसत 0.5 से बढ़ जाता है। नई संख्या निकाले।

a) 38 b) 36.5
c) 38.5 d) 24

71. उस भारतीय राज्य की पहचान करें, जिसे महाकाव्य काल में 'प्राग्ज्योतिष के रूप में जाना जाता था?

a) असम b) ओडिशा
c) केरल d) बिहार

72. सबसे पुराना उपनिषद् है?

a) ईशा उपनिषद् b) मांडुक्य उपनिषद
c) केना उपनिषद् d) छांदोग्य उपनिषद्

73. यहूदी किस धर्म का पालन करते हैं?

a) इसाई धर्म b) पारसी धर्म
c) जैन धर्म d) यहूदी धर्म

74. प्रारम्भिक चेर वंशीय राजाओं ने किन राज्यों पर शासन किया था?

a) तमिलनाडू और केरल b) बंगाल और उड़ीसा
c) अरुणाचल प्रदेश और सिक्किम d) महाराष्ट्र और गुजरात

75. पुष्यभूति, जिन्होंने थानेश्वर से शासन किया था,.....राजवंश के संस्थापक थे।

a) वर्धन b) चेर
c) पांड्य d) चालुक्य

76. निम्नलिखित में से कौन-सा मंदिर चोल साम्राज्य का उदाहरण है?

a) बादामी गुफा मंदिर b) चेन्नाकेशव मंदिर
c) ऐरावतेश्वर मंदिर d) विरूपाक्ष मंदिर

77. पदावली कीर्तन, मध्यकालीन पश्चिम बंगाल (15वीं से 17वीं शताब्दी) में..... की प्रशंसा में रचित गीतों को संदर्भित करता है।

a) शक्ति b) विष्णु
c) शिव d) बृह्म

78. निम्नलिखित राजाओं में से किसने ओडिशा में स्थित कोर्णाक मंदिर बनवाया था?
a) भानु देव b) अनंतवर्मन चोडगंगादेव
c) नरसिंह देव प्रथम d) अनंग भीम देव

79. अलीवर्दी खान..... का नवाब था ?
a) दक्कन b) मालाबार
c) अवध d) बंगाल

80. भारत में ब्रिटिश शासन में पहले गवर्नर जनरल कौन थे?
a) वारेन हैस्टिंगस b) जॉन एडम
c) जॉर्ज बालों d) चार्ल्स कॉर्नवॉलिस

81. इंडियन एसोसिएशन की स्थापना निम्न में से किस वर्ष में हुई थी ?
a) 1876 b) 1881
c) 1903 d) 1856

82. राजगोपालाचारी ने निम्न में से किस राज्य में नमक सत्याग्रह का नेतृत्व किया था?
a) गुजरात b) महाराष्ट्र
c) तमिलनाडु d) राजस्थान

83. निम्न में से किस वर्ष जापान ने भारत पर हमला किया जिसके परिणामस्वरूप इम्फाल की लड़ाई हुई?
a) 1944 b) 1901
c) 1862 d) 1899

84. अभिनव भारत समाज की स्थापना किसके द्वारा की गई थी ?
a) जवाहर लाल नेहरू b) विनाय सावरकर
c) महात्मा गाँधी d) वीर सावरकर

85. भारत को एक धर्मनिरपेक्ष देश कहा जाता है क्योंकि नागरिकों का मौलिक अधिकार है?
a) अभिव्यक्ति और अभिव्यक्ति की स्वतंत्रता b) पूरे भारत में स्वतंत्र रूप से घूमें
c) मानवीय गरिमा के साथ जिएं d) किसी के पसंद के धर्म को स्वीकार करने की स्वतंत्रता

86. निम्नलिखित में से कौन-सा राज्य का नितीनिर्देशक सिद्धांत है?
a) जीवन और व्यक्तिगत स्वतंत्रता का संरक्षण b) ग्राम पंचायतों का गठन
c) अल्पसंख्यकों के हितों का संरक्षण d) अस्पृश्यता का उन्मूलन

87. निम्न में से किसने 1979 में भारत के प्रधानमंत्री मोरारजी देसाई की जगह ली?
a) चंद्रशेखर b) देवीलाल
c) जगजीवन राम d) चरण सिंह

88. निम्न में से किस राज्य में राज्यपाल को कानून ओर व्यवस्था तथा उससे संबंधित उसके कार्यों के निर्वहन के संबंध में संविधान के अनुच्छेद 371 H के तहत विशेष जिम्मेदारी दी गई है?
a) नागालैंड b) मिजोरम
c) सिक्किम d) अरूणाचल प्रदेश

89. निम्नलिखित में से किसे भारतीय निर्वाचन आयोग में उप-चुनाव आयुक्त नियुक्त किय गया?
a) राजन दत्ता b) अशोक लवासा
c) उमेश सिन्हा d) राजीव कुमार

90. 73वें संवैधानिक संशोधन अधिनियम के अनुसार पंचायत का कार्यकाल कितना होता है?
a) 4 वर्ष b) 3 वर्ष
c) 6 वर्ष d) 5 वर्ष

91. भारतीय संविधान के निम्न में से किस अनुच्छेद में देवनागरी लिपि में लिखी हिंदी को संघ की आधिकारिक भाषा के रूप में अपनाया गया था?
a) अनुच्छेद-243 b) अनुच्छेद-231
c) अनुच्छेद-108 d) अनुच्छेद-123

92. भारत में लेफ्टिनेंट गवर्नर.....
a) की नियुक्ति सेना द्वारा की जाती है। b) केंद्र शासित प्रदेश के नाममात्र के प्रमुख के रूप में कार्य करते हैं।
c) भारत के लोगों द्वारा चुने जाते हैं। d) मुख्यमंत्री की मंत्रीयों की परिषद के प्रति जवाबदेह है।

93. निम्न में से कौन से स्थान की समुद्र तट से ऊँचाई सबसे अधिक है?
a) पटना b) कोलकाता
c) रानिखेत d) मुरादाबाद

94. निम्न में से कौन सी नदी गुजरात राज्य में अरब सागर की कैंबे की खाड़ी (खंभात की खाड़ी) में गिरती है ?
a) कृष्णा b) गोदावरी
c) तापि d) कावेरी

95. बाघमारा कीटभोजी घटपर्णी अभ्यारण्य (पिचर प्लांट) निम्न में से किस राज्य में स्थित है ?
a) पिंजाल b) दमनगंगा
c) नर्मदा d) पार

96. मृदा के किस हिस्से में खनिज पदार्थ, पोषक तत्वों और जल के साथ कार्बनिक पदार्थ समाविष्ट होते हैं?
a) संस्तर (होरिजन) D b) संस्तर (होरिजन) C
c) संस्तर (होरिजन) A d) संस्तर (होरिजन) B

97. निम्नलिखित में से किस शहर को भारत का सिलिकॉन वैली कहा जाता है?
a) जयपुर b) नई दिल्ली
c) बेंगलूरू d) चैन्नई

98. 2011 की जनगणना के आंकड़ों के निष्कर्ष अनुसार, केरल में प्रति 1000 पुरूषो पर 1084 महिलाओं के साथ लिंगानुपात सर्वाधिक है, जबकि .....में प्रति 1000 पुरुषों पर मात्र 877 महिलाओं के साथ लिंगानुपात भारत में सबसे कम है?

a) पंजाब
b) झारखंड
c) राजस्थान
d) हरियाणा

99. डेबिट कार्ड और क्रेडिट कार्ड में क्या अंतर है?

a) डेबिट कार्ड उपयोगकर्ताओं को केवल उनके पास पैसा खर्च करने की अनुमति देते हैं, जबकि क्रेडिट कार्ड उपयोगकर्ताओं को पैसे उधार लेने की अनुमति देते हैं
b) क्रेडिट कार्ड की तुलना में डेबिट कार्ड की ब्याज दरें कम होती हैं
c) क्रेडिट कार्ड की तुलना में डेबिट कार्ड की फीस अधिक है
d) डेबिट कार्ड की खर्च सीमा नहीं होती है, जबकि क्रेडिट कार्ड की होती है

100. भारत में स्थापित पहली सूती कपड़ा मिल कौन सी थी?

a) बॉम्बे स्पिनिंग एंड वीविंग कंपनी
b) केलिको मिल्स
c) टाटा मिल्स
d) नेशनल टेक्सटाइल कॉर्पोरेशन

LOGO HERE